勉強した日　　月　　日

単元５　時間と長さ

9 時こくと時間の計算

1 次の時こくをもとめなさい。

(1)　午前10時10分から40分後の時こく

(　　)

(2)　午後２時50分から15分後の時こく

(　　)

(3)　午前８時20分から１時間25分後の時こく

(　　)

(4)　午後５時40分から１時間35分後の時こく

(　　)

2 次の時こくをもとめなさい。

(1)　午後２時20分から50分前の時こく

(　　)

(2)　午前11時10分から35分前の時こく

(　　)

(3)　午後４時50分から２時間40分前の時こく

(　　)

(4)　午前９時10分から１時間20分前の時こく

(　　)

3 次の時間は，何時間何分になりますか。

(1)　午後３時30分から午後６時までの時間

(　　)

(2)　午前10時から午後２時10分までの時間

(　　)

(3)　午前９時10分から午前10時50分までの時間

(　　)

(4)　午前10時45分から午後２時20分までの時間

(　　)

単元5　時間と長さ

10 短い時間のたんい

1 下のストップウォッチは，何秒を表していますか。

(1)

(　　)

(2)

(　　)

(3)

(　　)

(4)

(　　)

(5)


(　　)

(6)


(　　)

(7)


(　　)

(8)


(　　)

2 □にあてはまる数を書きなさい。

(1)　1分30秒＝□秒

(2)　2分40秒＝□秒

(3)　65秒＝□分□秒

(4)　195秒＝□分□秒

(5)　30秒＋50秒＝□分□秒

(6)　20秒＋1分10秒＝□分□秒

(7)　1分25秒＋50秒＝□分□秒

(8)　15秒＋2分55秒＝□分□秒

(9)　80秒－30秒＝□秒

(10)　4分50秒－30秒＝□分□秒

(11)　2分10秒－45秒＝□分□秒

(12)　3分20秒－55秒＝□分□秒

11 単元5 時間と長さ
長い長さのたんい

1 下のまきじゃくで，ア～クのめもりが表(あらわ)す長さを読みなさい。

(1)

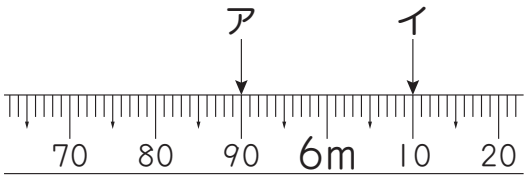

ア（　　）　イ（　　）

(2)

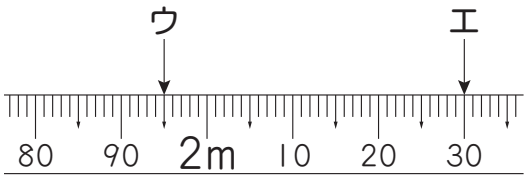

ウ（　　）　エ（　　）

(3)

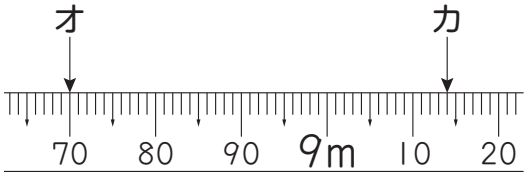

オ（　　）　カ（　　）

(4)

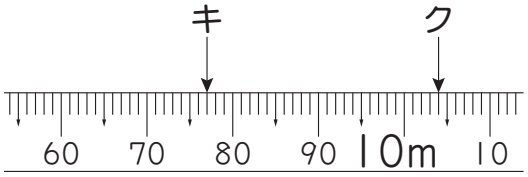

キ（　　）　ク（　　）

2 □にあてはまる数を書きなさい。

(1) 8km＝□m

(2) 3km400m＝□m

(3) 6200m＝□km□m

(4) 3700m＝□km□m

(5) 12000m＝□km

(6) 26000m＝□km

(7) 200m＋900m＝□km□m

(8) 500m＋800m＝□km□m

(9) 3km600m＋400m＝□km

(10) 3km300m＋2km700m＝□km

(11) 2km200m－500m＝□km□m

(12) 1km100m－700m＝□m

(13) 5km－300m＝□km□m

(14) 2km300m－1km800m＝□m

単元5　時間と長さ

12 きょりと道のり

1 右の地図を見て，問題に答えなさい。

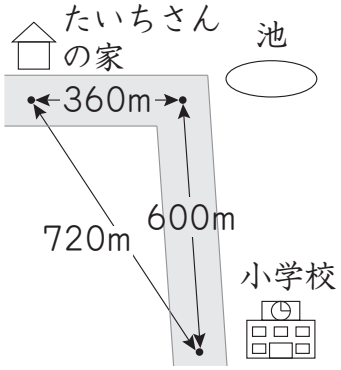

(1)　たいちさんの家から小学校までのきょりは，何mですか。

（　　）

(2)　たいちさんの家から小学校までの道のりは，何mですか。

［式］

答え（　　）

(3)　たいちさんの家から小学校までのきょりと道のりのちがいは，何mですか。

［式］

答え（　　）

2 下のような地図があります。

まりさんの家から図書館まで行くのに，市役所の前を通ったときと，バスていの前を通ったときでは，道のりは何mちがいますか。

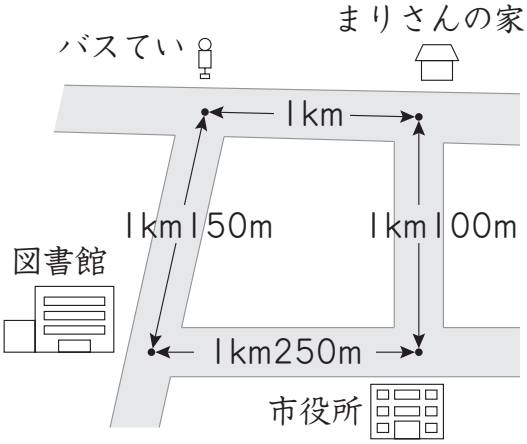

［式］

答え（　　）

単元６　あまりのあるわり算

13 あまりのあるわり算の考え方（１）

1 次の問題に答えなさい。

(1) チョコレートが46こあります。
１人に７こずつ分けると，何人に分けられて，何こあまりますか。

［式］

答え（　　）

(2) ペンが67本あります。
１人に８本ずつ分けると，何人に分けられて，何本あまりますか。

［式］

答え（　　）

(3) ノートが27さつあります。
１人に５さつずつ分けると，何人に分けられて，何さつあまりますか。

［式］

答え（　　）

(4) おり紙が41まいあります。
１人に９まいずつ分けると，何人に分けられて，何まいあまりますか。

［式］

答え（　　）

2 次のわり算が，「わりきれる」か「わりきれない」かを書きなさい。

(1) 20÷4　（　　）

(2) 28÷8　（　　）

(3) 53÷6　（　　）

(4) 27÷3　（　　）

(5) 12÷2　（　　）

(6) 18÷7　（　　）

(7) 42÷9　（　　）

(8) 40÷5　（　　）

14 あまりのあるわり算の計算

1 あまりの大きさに気をつけて計算しなさい。

(1)　31÷8

(2)　59÷6

(3)　14÷5

(4)　35÷4

(5)　23÷3

(6)　17÷4

(7)　34÷5

(8)　60÷9

(9)　19÷2

(10)　32÷7

(11)　47÷6

(12)　74÷9

2 次(つぎ)の計算で，答えのまちがいをなおしなさい。

(1)　11÷2＝4あまり3

(　　)

(2)　26÷3＝7あまり5

(　　)

(3)　30÷9＝4あまり6

(　　)

(4)　52÷8＝7あまり4

(　　)

15 あまりのあるわり算の考え方(2)

1 次の問題に答えなさい。

(1)　みかんが78こあります。
　8人に同じ数ずつ分けると，1人分は何こになって，何こあまりますか。

[式]

答え（　　）

(2)　あめが24こあります。
　5人に同じ数ずつ分けると，1人分は何こになって，何こあまりますか。

[式]

答え（　　）

(3)　はがきが15まいあります。
　2人に同じ数ずつ分けると，1人分は何まいになって，何まいあまりますか。

[式]

答え（　　）

(4)　切手が26まいあります。
　9人に同じ数ずつ分けると，1人分は何まいになって，何まいあまりますか。

[式]

答え（　　）

2 次の問題に答えなさい。

(1)　32cmのひもがあります。
　6cmずつに切ると，何本できて，何cmのこりますか。

[式]

答え（　　）

(2)　20mのホースがあります。
　3mずつに切ると，何本できて，何mのこりますか。

[式]

答え（　　）

(3)　19dLの水があります。4dLずつコップに入れると，水の入ったコップは何はいできて，水は何dLのこりますか。

[式]

答え（　　）

(4)　41dLのお茶があります。5dLずつびんに入れると，お茶の入ったびんは何本できて，お茶は何dLのこりますか。

[式]

答え（　　）

単元6　あまりのあるわり算

16 答えのたしかめ

1 わり算をして，答えのたしかめをします。□にあてはまる数を書きなさい。

(1)　34÷4＝8あまり2

（たしかめ）　4×□＋□＝34

(2)　47÷7＝6あまり5

（たしかめ）　7×□＋□＝47

(3)　9÷2＝4あまり1

（たしかめ）　2×□＋□＝9

(4)　18÷5＝3あまり3

（たしかめ）　5×□＋□＝18

(5)　71÷9＝7あまり□

（たしかめ）　9×□＋□＝71

(6)　22÷8＝2あまり□

（たしかめ）　8×□＋□＝22

(7)　35÷6＝5あまり□

（たしかめ）　6×□＋□＝35

(8)　29÷3＝9あまり□

（たしかめ）　3×□＋□＝29

2 次の問題に答えなさい。また，計算の答えがあっているか，たしかめなさい。

(1)　色紙が33まいあります。
　1人に5まいずつ配ると，何人に配れて，何まいあまりますか。

［式］

答え（　　）

たしかめ（　　）

(2)　グミが60こあります。
　1ふくろに7こずつ入れると，何ふくろできて，何こあまりますか。

［式］

答え（　　）

たしかめ（　　）

(3)　ジュースが26dLあります。
　6dLずつコップに分けていくと，何はいできて，何dLのこりますか。

［式］

答え（　　）

たしかめ（　　）

(4)　リボンが46cmあります。
　8cmずつ切っていくと，何本できて，何cmのこりますか。

［式］

答え（　　）

たしかめ（　　）