力がつくドリル算数
詳細はここをクリック！

35 三角形と　四角形

1 下の　図を　見て，もんだいに　答えましょう。

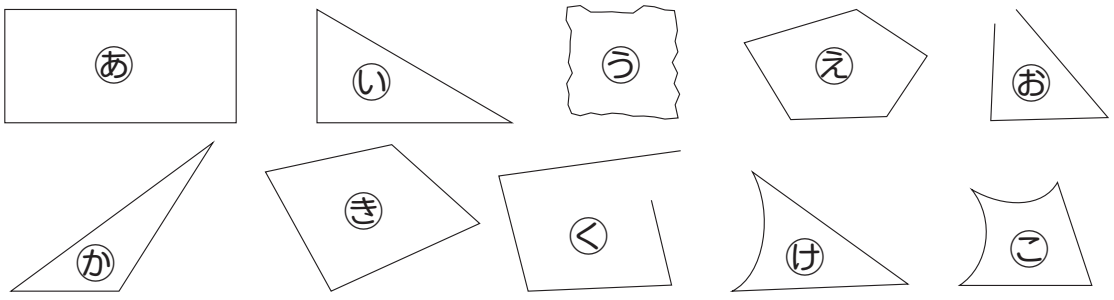

(1)　三角形を　すべて　えらんで　記ごうを　答えましょう。

(　　)

(2)　四角形を　すべて　えらんで　記ごうを　答えましょう。

(　　)

2 □に　あてはまる　ことばを　書きましょう。

3 下の　三角形や　四角形を　直線で　2つに　分けて，つぎの形を　作ります。分ける　線を　図に　かきましょう。

(1)　2つの　三角形

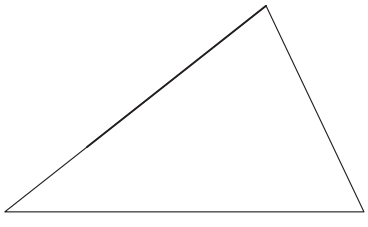

(2)　三角形と　四角形

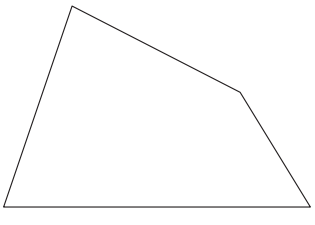

たんげん10　三角形と　四角形

36 直角三角形

1 三角じょうぎに　ついて　答えましょう。

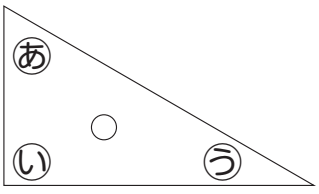

(1)　へんと　ちょう点の　数は　それぞれ　いくつでしょう。

へん（　　）　ちょう点（　　）

(2)　直角の　かどは　あ・い・うの　どれでしょう。

（　　）

2 下の　三角形の中で，直角三角形を　すべて　えらんで　記ごうを答えましょう。

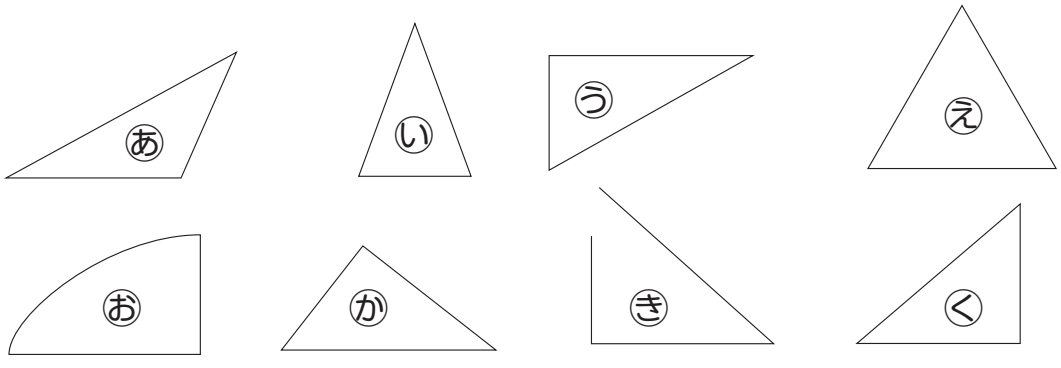

（　　）

3 下のような　直角三角形を　かきましょう。

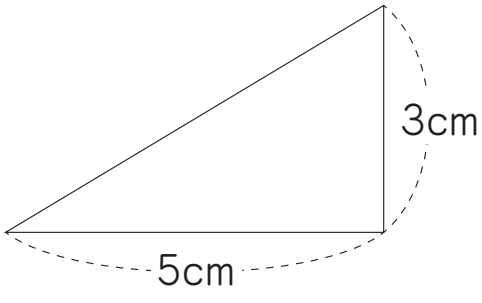

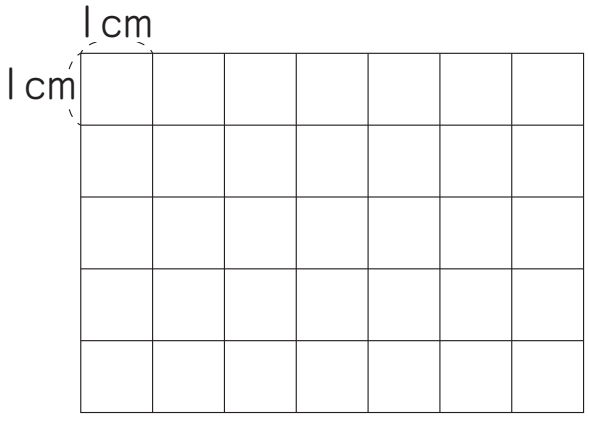

たんげん10　三角形と　四角形

37 長方形と　正方形，直角三角形

1 下の　四角形の　中で　正方形と　長方形は　どれでしょう。すべてえらんで　記ごうで　答えましょう。

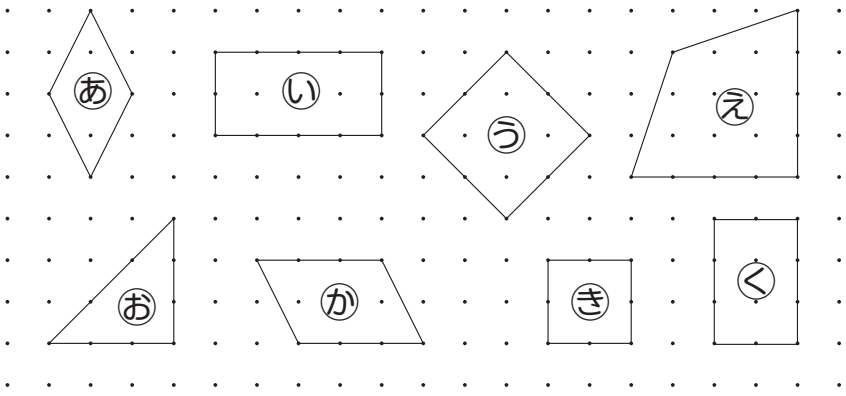

正方形

（　　）

長方形

（　　）

2 正方形の　色紙を，下のように　おりました。どんな　四角形や三角形が　できたでしょう。



（　　）　　（　　）

3 長方形や　正方形を　かきましょう。

(1)　1つの　へんの　長さが　2cmの　正方形

(2)　たて3cm，よこ4cmの　長方形



たんげん11　かけ算(1)

38 2・5のだんの　九九

1 (　)に　あてはまる　数を　書きましょう。

(1)　2×7＝2＋2＋2＋2＋2＋2＋(　　)

(2)　5＋5＋5＝5×(　　)

2 つぎの　九九の　答えを　数字で　書きましょう。

(1)　二二が　(　　)

(2)　二六　(　　)

(3)　五五　(　　)

(4)　五九　(　　)

3 かけ算を　しましょう。

(1)　2×1

(2)　2×4

(3)　2×8

(4)　5×2

(5)　5×6

(6)　5×7

4 あめが　1ふくろに　2こ　入って　います。
3ふくろでは，あめは　何こに　なるでしょう。

[しき]

答え(　　)

5 画用紙が　5まいずつ　たばに　なって　います。
8たばでは，画用紙は　何まいに　なるでしょう。

[しき]

答え(　　)

たんげん11　かけ算(1)

39 3・4のだんの　九九

1 (　)に　あてはまる　数を　書きましょう。

(1)　3×4＝3＋3＋3＋(　　)

(2)　4＋4＋4＋4＋4＋4＋4＋4＝4×(　　)

2 つぎの　九九の　答えを　数字で　書きましょう。

(1)　三一が　(　　)　(2)　三五　(　　)　(3)　四三　(　　)　(4)　四六　(　　)

3 かけ算を　しましょう。

(1)　3×2　(2)　3×6　(3)　3×9

(4)　4×1　(5)　4×4　(6)　4×7

4 3人がけの　いすが　7こ　あります。
ぜんぶで　何人　すわれるでしょう。

[しき]

答え(　　)

5 1はこに　クッキーが　4まい　入って　います。
5はこ　あると，クッキーは，ぜんぶで　何まいに　なるでしょう。

[しき]

答え(　　)

たんげん12　かけ算(2)

40 6・7のだんの　九九

1 (　)に　あてはまる　数を　書きましょう。

(1) 6×6＝6＋6＋6＋6＋6＋(　　)

(2) 7＋7＋7＋7＋7＋7＋7＝7×(　　)

2 つぎの　九九の　答えを　数字で　書きましょう。

(1) 六三　　(2) 六七　　(3) 七一が　　(4) 七九

(　　)　(　　)　(　　)　(　　)

3 かけ算を　しましょう。

(1) 6×1　　(2) 6×5　　(3) 6×8

(4) 7×2　　(5) 7×3　　(6) 7×6

4 いちごが　1パックに　6こ　入って　います。
9パックでは，いちごは　何こに　なるでしょう。

[しき]

答え(　　)

5 1まい　7cmの　長さの　木の　いたが　あります。
8まいでは，ぜんぶで　何cmの　長さに　なるでしょう。

[しき]

答え(　　)

たんげん12　かけ算(2)

41 8・9・1のだんの　九九

1 (　)に　あてはまる　数を　書きましょう。

(1) 8×4＝8＋8＋8＋(　　)

(2) 9＋9＋9＋9＋9＋9＝9×(　　)

(3) 1＋1＋1＋1＋1＋1＋1＝1×(　　)

2 かけ算を　しましょう。

(1) 8×5　　(2) 9×2　　(3) 1×6

3 1チーム　8人　います。
8チームでは，何人に　なるでしょう。

[しき]

答え(　　)

4 うえ木ばちに　花が　9本　さいて　います。
うえ木ばちが　3こでは，花は　何本　さいて　いるでしょう。

[しき]

答え(　　)

5 1人に　1こずつ　あめを　くばります。
4人に　くばると，あめは　何こ　ひつようでしょう。

[しき]

答え(　　)

たんげん12　かけ算(2)

42 九九(1)

1 かけ算を　しましょう。

(1) 2×9　(2) 5×4　(3) 3×8

(4) 4×2　(5) 6×4　(6) 7×5

(7) 8×9　(8) 9×7　(9) 1×8

2 □に　あてはまる　数を　書きましょう。

(1) 2×□＝10　(2) 1×□＝3　(3) 4×□＝36

(4) 6×□＝12　(5) 8×□＝56　(6) 9×□＝81

(7) □×6＝48　(8) □×5＝45　(9) □×3＝9

3 答えが　いちばん　大きい　カードに，○を　つけましょう。

(1)

3×6　(　　)

2×7　(　　)

4×4　(　　)

(2)

8×3　(　　)

7×7　(　　)

9×4　(　　)